ПРЕСМЕТУВАЊЕ СТРАНА НА ПРАВОАГОЛНИК **6.5.2020**

1. Пресметај го периметарот на правоаголникот!

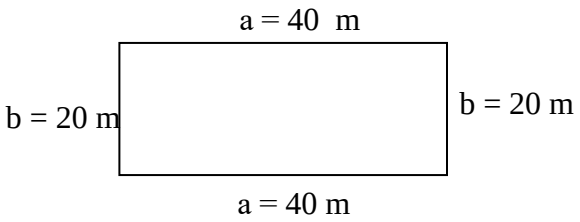

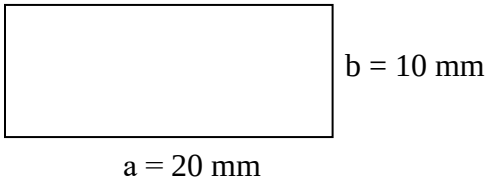

a = ___ m
b = ___ m
L = ?

L = 2 · (a + b)

L = 2 · (_____)

L = 2 · ____

L = ___

a = __
b = __
L = ?

L = _____

L = _____

L = _____

L = ___

3. Пресметај ја страната на правоаголникот!

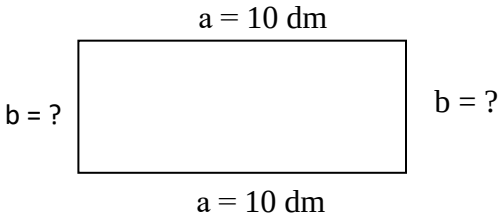

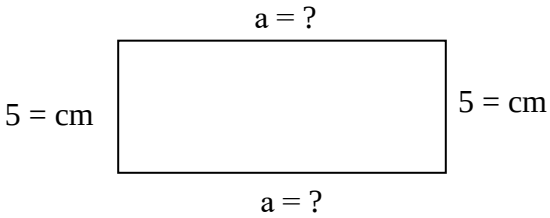

a = __ dm
L = 26 dm
b =?

L - 2·a = 2·b

_____

_____

b =_____

b =_____

b = __ cm
L = 24 cm
a =?

L - 2·b = 2·a

_____

_____

a =_____

a =_____

5. Пресметај ја страната на квадратот со обиколка 40 dm!

6. Пресметај ја страната на рамностраниот триаголник со обиколка 9 m!

Исечете сламки, ленти, земете чепкалки или некои други материјали, направете квадрати, правоаголници и триаголници. Пресметајте ја обиколката на секоја од фигурите.

име и презиме_____ http://odnasataucilnica.com